第16講　近　代（開国～明治維新）

Step　1

1　次の問いに答えなさい。

⑴　『市民政府二論〔統治二論〕』で人間の自由・平等を説き，それを侵す政府への抵抗権・革命権を認め，名誉革命を理論づけた啓蒙思想家とは誰か。

⑵　アメリカ初代大統領に就任した人物とは誰か。

⑶　次の文章中の空所を埋めよ。

「1789年，革命下のフランスでは，国民議会が自由・平等・人民主権を記した（　　　）を発表した。」

⑷　イギリスのニューコメンが開発した蒸気機関を改良し実用化した人物とは誰か。

⑸　1842年，アヘン戦争に勝利したイギリスが清と締結した条約を何というか。

⑹　1857年～59年，「インド大反乱」を起こしたイギリスのインド人傭兵を何というか。

⑺　1853年，アメリカ東インド艦隊司令長官ペリーが来航した，神奈川県の地名を答えよ。

⑻　1858年，ハリスと日米修好通商条約を結んだ大老とは誰か。

⑼　薩長同盟が成立した年を西暦で答えよ。

⑽　1871年，中央集権国家の基礎が確立することになった出来事とは何か。

⑾　1873年の徴兵令では，満何歳以上の男子に兵役の義務が課されたか。

⑿　『学問のすゝめ』を著し，人間の平等と自立，学問の重要性を説いた人物とは誰か。

Step　2

2　次の文は，ある時代のできごとやその影響をまとめたものである。あとの問いに答えよ。

江戸幕府は，①外国船がひんぱんに日本近海に現れる中であくまでも鎖国を守ろうとしたが，②アメリカのペリーが来航し開国を要求すると，その強い態度におされて開国にふみきった。

(1)　下線の部分①について，外国船が日本近海に現れた19世紀のアジアでのできごととして適当でないものを，次のア～エから一つ選んで記号で書け。

ア　太平天国の乱　　イ　インド大反乱　　ウ　アヘン戦争　　エ　辛亥（しんがい）革命

(2)　下線の部分②について，ペリーの開国要求に対する幕府の対応は朝廷や大名の発言権を強めることになったが，その理由を解答欄の書き出しに続けて書け。

幕府が従来の方針をかえて（　　　　　　　　　　　　　　　　　　　　）から。

【福井県】

3　表は，社会科の授業で，わが国の明治時代の経済について時期ごとにテーマを考え，調べてまとめたものの一部である。あとの各問いに答えなさい。

表

時代	テーマ	わが国のようす
明治	殖産興業の推進	戊辰（ぼしん）戦争に勝利した①新政府は，②富国強兵のための政策を進め，各地に③官営の工場をつくり，新しい技術の普及を図った。
	産業革命の進展	立憲制の国家のしくみを整えていく中で，産業では，軽工業を中心に工業化が進み，生糸や綿糸がさかんに輸出された。

1　下線部①について，新政府は，［ a ］の国家をめざし，全国の藩主たちに命じて，土地と人民を天皇に返上させる［ b ］を行った。［ a ］，［ b ］に当てはまる語の組み合わせとして正しいものを，次のア～カから一つ選び，記号で答えなさい。

ア　a：地方分権　b：王政復古　イ　a：中央集権　b：王政復古
ウ　a：地方分権　b：廃藩置県　エ　a：中央集権　b：廃藩置県
オ　a：地方分権　b：版籍奉還　カ　a：中央集権　b：版籍奉還

2　下線部②について，政府の収入を安定させるために地租改正が行われ，地租を［ a ］の3％とし，土地所有者が［ b ］で納めることとした。［ a ］，［ b ］に当てはまる語を，それぞれ書きなさい。

3　下線部③について，官営の工場は，わが国の軽工業と重工業の発展に大きな役割を果たした。(1)，(2)の問いに答えなさい。

(1)　資料は，1872年に開業した，生糸を生産する官営の工場のようすをえがいたものである。この工場の名称を書きなさい。また，この工場の場所を，図の•で示したア～カから一つ選び，記号で答えなさい。

(2)　官営の八幡（やはた）製鉄所は，［　　］で得た賠償金を使って建設され，わが国の重工業の発展の基礎となった。［　　］に当てはまる戦争の名称を書きなさい。また，この製鉄所の場所を，図の•で示したア～カから一つ選び，記号で答えなさい。

資料

図

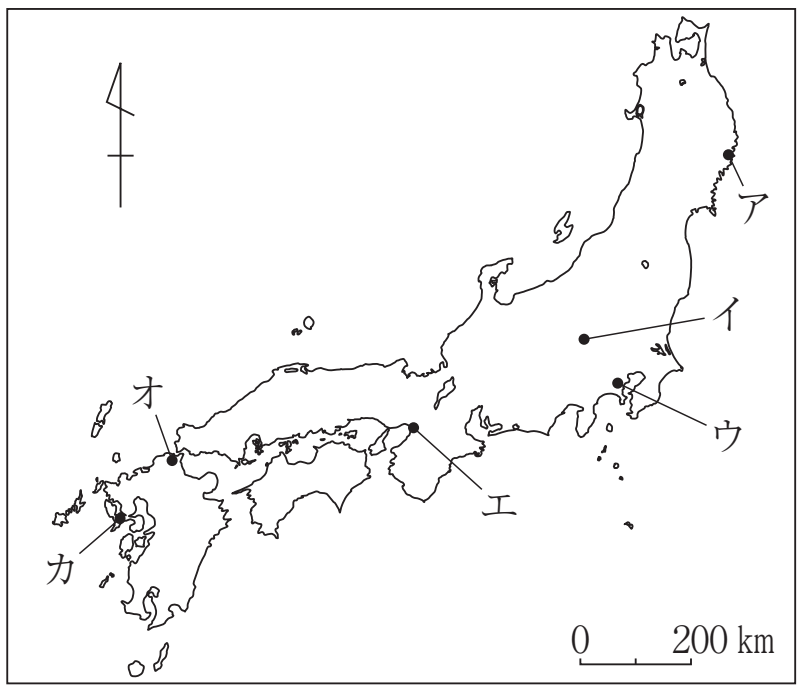

【熊本県】

Step 3

4　花子さんは，歴史学習を進める中で，世界のできごとを，カードにまとめた。問に答えなさい。

世界のできごと
・名誉革命おこる ・フランス革命おこる ・資本主義社会の成立

問．下線部に関連して，次の黒板は，花子さんのクラスで行われた，一時間の授業の内容である。①，②の問いに答えなさい。

ヨーロッパの近代化

【課題】 18 世紀末から 19 世紀前半にかけて，［　A　］のはなぜか？

資料　綿織物の輸出額の変化

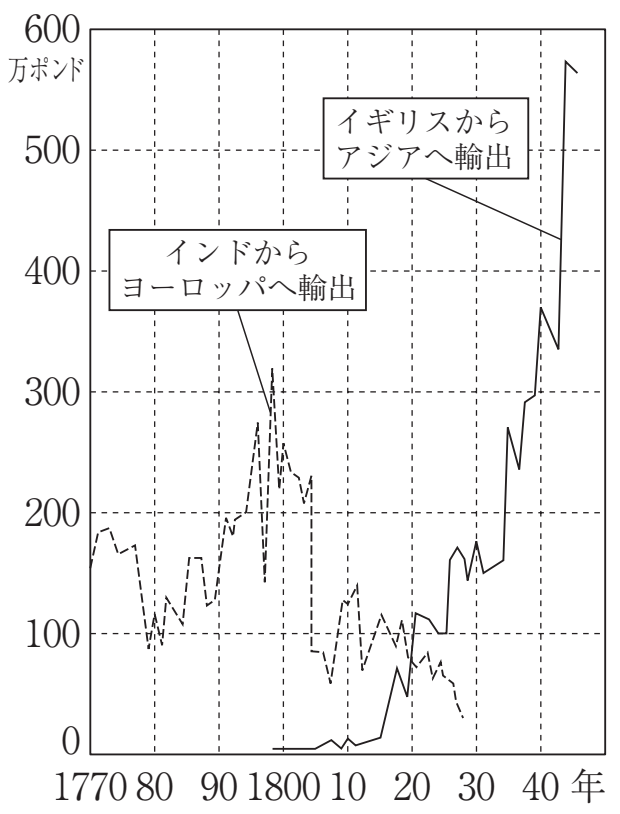

【調べたり話し合ったりしてわかったこと】
- イギリスでは，軽くて美しいインド産の綿織物は，人気が高かった。
  →貿易赤字だった。
- 紡績機（ぼうせきき）や機織機（はたおりき）の発明
- 蒸気機関の改良と利用
  →蒸気機関で動く機械の使用
  →蒸気機関を利用した交通が発達

〈蒸気機関の説明図〉

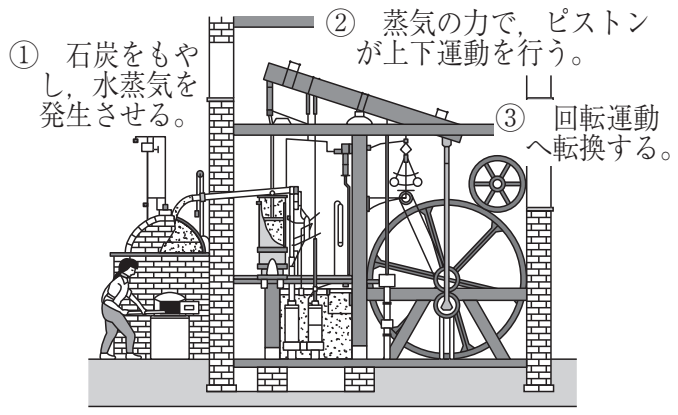

【まとめ】
　綿織物の人気が高まったイギリスでは，綿織物を自国でつくるために，紡績機や機織機が発明された。やがて蒸気機関で動く機械が使われるようになると，綿織物を（ B ）することが可能になった。また，（ C ）がつくられると，綿織物を，定期的に大量に，アジアへ運ぶことができるようになった。

【家で調べてくること】
　このような技術の向上は，社会にどのような変化を与えただろうか？

① 「ヨーロッパの近代化」をテーマにした授業の中で，資料から読み取れることをもとに，花子さんたちは，【課題】を設定した。【課題】の［　A　］に，当てはまる内容を書きなさい。

② 花子さんたちは，【調べたり話し合ったりしてわかったこと】を整理した。【調べたり話し合ったりしてわかったこと】を参考にして，【まとめ】の（ B ）には当てはまる内容を，（ C ）には当てはまる語句を書きなさい。

【大分県】

5　次の地形図は札幌市の山鼻地区の一部である。地形図に見られる土地区画の特徴について，資料1，資料2をもとに説明せよ。ただし，資料1の□に入る**漢字3字**のことばを使うこと。

地形図

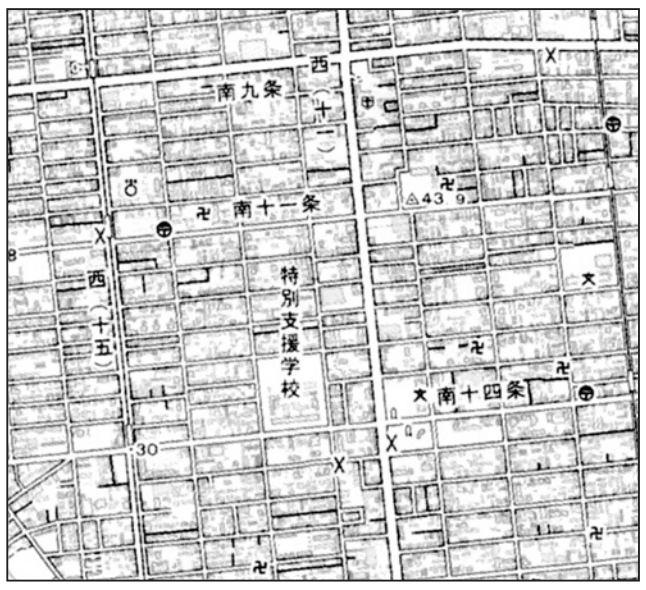

（1:25,000 地形図「札幌」の一部を編集）

資料1　札幌市に関する年表

年	主なできごと
1869年	開拓使が設置され，蝦夷地を北海道と改称
1876年	山鼻地区に北海道の開拓と防備の役割を兼ねた□が入植

資料2　開拓のようす

【鹿児島県】

〈***Note***〉

第 16 講　近　代（開国～明治維新）

Step　1

1　⑴ ロック　⑵ ワシントン　⑶ 人権宣言　⑷ ワット　⑸ 南京条約
⑹ セポイ〔シーパーヒー〕 ⑺ 浦賀　⑻ 井伊直弼　⑼ 1866 年　⑽ 廃藩置県
⑾ 20 歳　⑿ 福沢諭吉

Step　2

2　⑴ エ
⑵ (幕府が従来の方針をかえて)朝廷に報告し，諸大名に意見を求めた(から。)（同意可）

3　1. カ　2. a. 地価　b. 現金　3. ⑴ 富岡製糸場　（記号）イ　⑵ 日清戦争　（記号）オ

Step　3

4　問. ① 綿織物の輸出額はインドからヨーロッパへは減少し，イギリスからアジアへは増加した（同意可）　② (B) 大量に生産（同意可）　(C) 蒸気船

5　屯田兵の入植により計画的に開拓されたことから，碁盤目状に土地が区画されている。(同意可)